COLEGIO HORIZONTE

GUÍA MES JUNIO 2021

Mail institucional Docente: tercero.carolinaflores@gmail.com

Docente: Carolina Flores	**Asignatura: Matemáticas**	**Curso: 3º A**
OA15: Describir, comparar y construir figuras 2D (triángulos, cuadrados, rectángulos y círculos) con material concreto.		

Nombre Estudiante:	**Fecha: Junio 2021**

I: SELECCIÓN MÚLTIPLE. Puntaje: 12

Instrucciones: Marca con una X la alternativa correcta.

1.- ¿Cuál de las siguientes figuras NO tiene vértice ni aristas?

a) 

b) 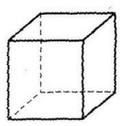

c) 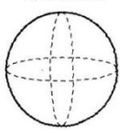

2.- ¿Cuál figura tiene 8 vértices, 12 aristas, 6 caras?

a) 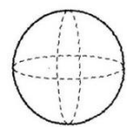

b) 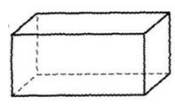

c) 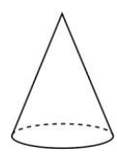

3.- ¿Cuál de las siguientes figuras NO tiene vértice ni aristas?

a) 

b) 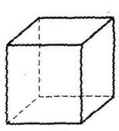

c) 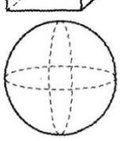

4.- El helado se asemeja (parece) a:

a) Una pirámide.
b) Un cono.
c) Un cubo

5.- ¿Cuál alternativa muestra la relación correcta de figuras 2D y 3D?

a) Cuadrado – esfera
b) Rectángulo – Cubo
c) Triángulo – Pirámide

6.- ¿Cuál de las siguientes figuras tiene tres lados y tres vértices?

a) Cuadrado

b) Triángulo

c) Pirámide 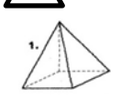

II: Observa tu casa y dibuja objetos que se asemejen a estas figuras 3D:

Puntaje: 2 c/u (12)

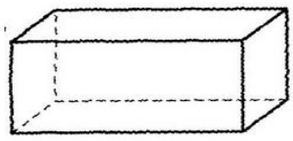	
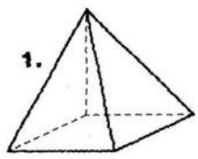	
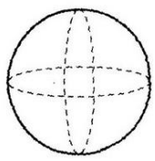	
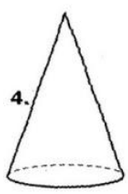	
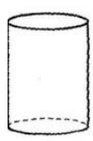	
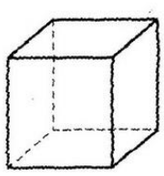	

III: Escribe las características de cada una. **Puntaje: 12 pts.**

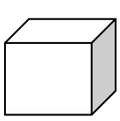	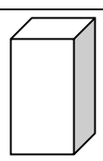	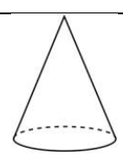	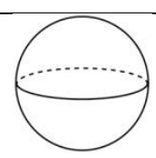
Cubo	**Paralelepípedo**	**Cono**	**Esfera**
Características _____ _____ _____	Características _____ _____ _____	Características _____ _____ _____	Características _____ _____ _____