GUÍA MES AGOSTO 2021

Mail institucional Docente: 1basicohorizonte@gmail.com

Docente: Marcela González Vargas	**Asignatura: Matemática**	**Curso: 1°A**
OAs a evaluar: **O.A.3: Leer números del 0 al 20 y representarlos en forma concreta, pictórica y simbólica.** **OA 9. Demostrar que comprenden la adición y la sustracción de números del 0 al 20 progresivamente, de 0 a 5, de 6 a 10, de 11 a 20 con dos sumandos:** **• usando un lenguaje cotidiano para describir acciones desde su propia experiencia** **• representando adiciones y sustracciones con material concreto y pictórico, de manera manual y/o usando software educativo • representando el proceso en forma simbólica** **• resolviendo problemas en contextos familiares • creando problemas matemáticos y resolviendolos.**		

Nombre Estudiante:	**Curso:**	**Fecha:**

Ítem I: Instrucciones: Encierra en un círculo rojo las maneras de hacer la suma.
Puntaje: 20

7	8	9	10
6 + 1	2 + 4	9 + 0	9 + 1
5 + 3	4 + 4	2 + 7	7 + 3
2 + 5	6 + 1	3 + 5	2 + 6
3 + 3	7 + 1	8 + 1	6 + 4
2 + 4	4 + 3	4 + 5	2 + 8
7 + 0	3 + 5	1 + 7	5 + 3
0 + 5	6 + 2	2 + 4	3 + 7
7 + 2	0 + 8	4 + 1	5 + 5
4 + 3	2 + 5	6 + 3	0 + 9

Ítem II:
Instrucciones:1° Tacha los elementos que debes *quitar* para resolver las sustracciones.
2° *Escribe* la resta en su forma vertical y 3° *resuelve* la sustracción. (12 puntos)

3 – 2 = _____

7 – 1 = _____

5 – 3 = _____

4 – 0 = _____

Ítem III.
Instrucciones: Completa en el círculo, sumando el número que se indica. (6 puntos)

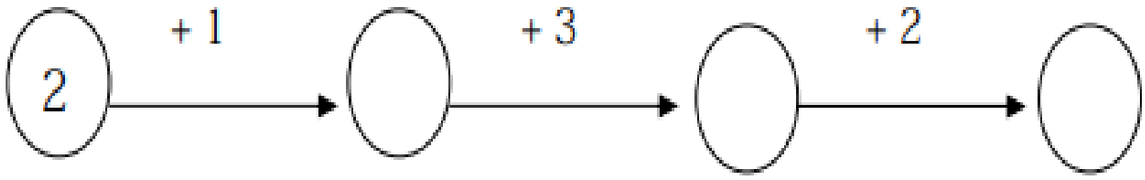

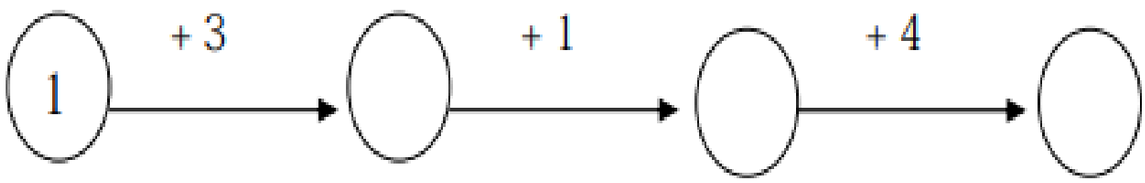

Ítem IV: Rincón problemático
Instrucciones: Resuelve los siguientes problemas de las siguientes imágenes. (4 puntos)



Puedes reforzar los contenidos con tu libro de matemáticas en las páginas 52, 53, 54, 55, 56, 57, 58, 59, 60, 61 y 62 además puedes practicar en tu cuaderno de actividades de las páginas 48 y 49.